1. Calculá el volumen de los siguientes cuerpos.

a.

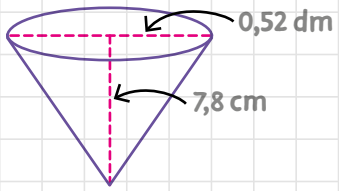

b.

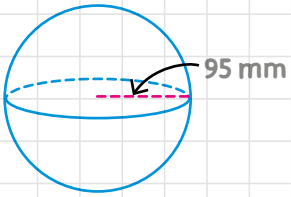

c.

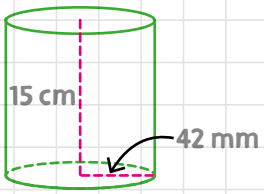

2. Leé las situaciones y respondé.

a. En una empresa láctea, envasan leche condensada en latas que miden 7 cm de diámetro y 8 cm de altura. ¿Cuál es el volumen que ocupa cada una?

b. Una pelota tiene un diámetro de 20 cm. ¿Cuál es el volumen de la pelota inflada?

c. Un cono de helado tiene 4 cm de radio en la base y 10 cm de alto. ¿Cuál es su volumen?

d. Un vaso cilíndrico tiene 50 mm de radio en la base y 12 cm de altura. ¿Cuál es su volumen?